Exercices Rythmiques

Nom : _____

Barres de mesures et temps 02

On doit ajouter les barres de mesure aux bons endroits et le numéro de chacun des temps sous les figures de notes et de silences.

Attention : Bien lire les chiffres indicateurs
Crayon à mine uniquement

A



B



C



D



© 2020 Studio Pedro

PierreLoiselle
pierreloiselle.com

E



F



G



H


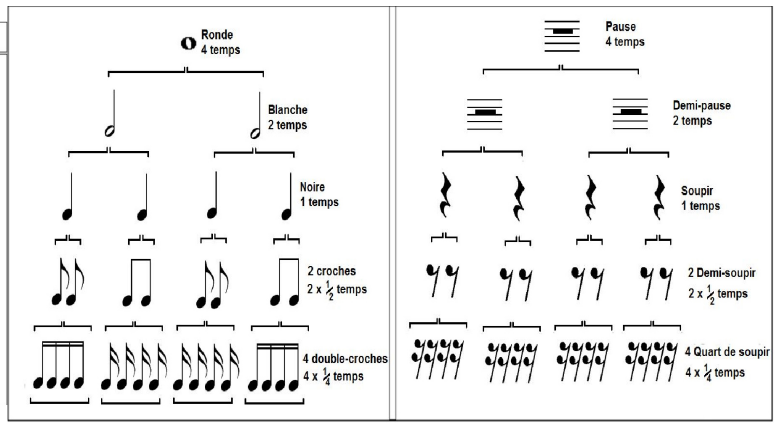
Figures de notes			Figures de silences		
Ronde :	𝅝	Durée : 4 temps	Pause :	▬	Durée : 4 temps
Blanche :	𝅗𝅥	Durée : 2 temps	Demi-pause :	▬	Durée : 2 temps
Noire :	𝅘𝅥	Durée : 1 temps	Soupir :	𝄽	Durée : 1 temps
Croche :	𝅘𝅥𝅮	Durée : $\frac{1}{2}$ temps	Demi-soupir :	𝄾	Durée : $\frac{1}{2}$ temps
Double-croche :	𝅘𝅥𝅯	Durée : $\frac{1}{4}$ temps	Quart de soupir :	𝄿	Durée : $\frac{1}{4}$ temps